MEDIDAS DE LONGITUD

1. USA la cinta métrica y mide. Luego completa.

A. El largo de la pizarra es _____ cm.

B. El alto de la puerta del salón _____ cm.

C. El ancho del salón es _____ cm.

D. Tu estatura es _____ cm.

2. MIDE con tu regla y ESCRIBE las medidas obtenidas.

El largo de tu lápiz.	El ancho de tu libro.	El alto de tu lonchera.
_____ cm.	_____ cm.	_____ cm.

3. MIDE con tu regla y ESCRIBE las medidas obtenidas.

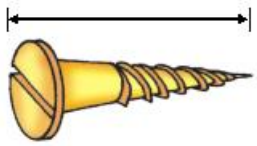

El tornillo mide:

_____ mm.

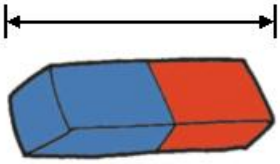

El borrador mide:

_____ mm.

El tajador mide:

_____ cm.

4. MIDE con la mano el largo y ancho de tu carpeta.

A. Mi carpeta mide _____ cuartas de largo.

B. Mi carpeta mide _____ cuartas de ancho.

5. Con las palabras de cuadro COMPLETA.

decímetro - metro - centímetro - milímetro

A. El largo del salón lo mido en _____.

B. El ancho del borrador lo mido en _____.

C. El largo del lápiz lo mido en _____.

D. El largo de la regla lo mido en _____.

6. COMPLETA los siguientes cuadro.

m	dm	cm	mm
4			
6			
8			
2			
3			

cm	m	mm	dm
100			
	5		
		7 000	
			90
40			

7. MIDE y COMPLETA el cuadro.

OBJETOS	MEDIDAS	
	m	dm
El ancho de la pizarra		
El largo del salón		
Altura de tu carpeta		

8. CONVIERTE.

A. 4 dm = _____ cm

B. 9 cm = _____ mm

C. 8 m = _____ dm

D. 20 cm = _____ mm

E. 60 dm = _____ mm

F. 70 m = _____ cm

9. Sin medir, MARCA con una X en el casillero de la longitud que te parezca más adecuada en cada caso. Verifica después usando la regla.

4 cm ☐ 5 cm ☐ 9 cm ☐

2 cm ☐ 10 cm ☐ 4 cm ☐

10.Con tu regla MIDE cada lado de estos polígonos y HALLA su perímetro.

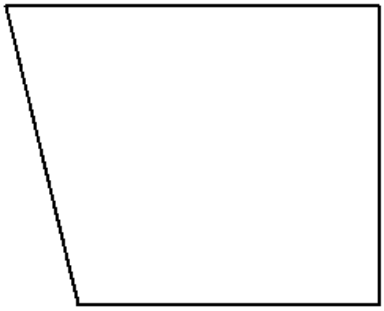

P = _____

P = _____

P = _____

P = _____

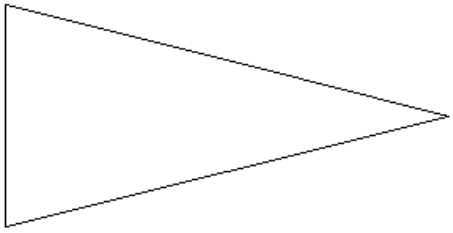

P = _____

P = _____

11.CONVIERTE.

A. 16 cm = _____ mm
B. 48 dm = _____ cm
C. 120 mm = _____ cm
D. 6 000 mm = _____ m
E. 860 cm = _____ dm
F. 36 dm = _____ m y _____ dm
G. 526 mm = _____ dm y _____ cm
H. 1 526 mm = _____ m y _____ mm

12.RESUELVE.

Arturo mide 1 m. y 42 cm. y su mamá mide 47 cm. de estatura más que él. ¿Cuál es la estatura de la mamá de Arturo?